Предмет: геометрия
Учитель: Шова Т.А.
Обратная связь: tatiana.sova19@yandex.ru
Работу выслать до 15.05.2023
Тема: Итоговая контрольная работа.

№1

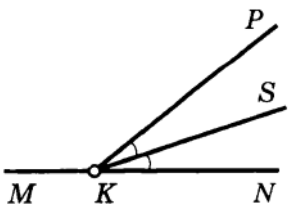

$\angle PKN = 40°$
$\angle MKS$ — ?

№2.

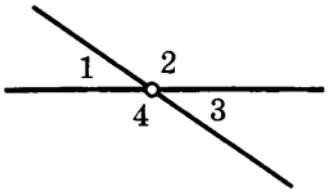

$\angle 1 + \angle 3 = 70°$
$\angle 2, \angle 4$ — ?

№3.
Найдите пары равных треугольников и докажите их равенство.

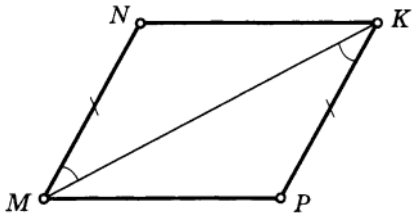

№4.

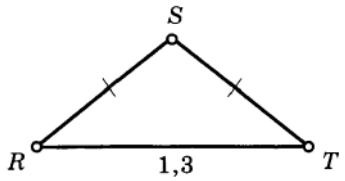

$P = 2{,}5$; $RT = 1{,}3$
RS, ST — ?

№5.

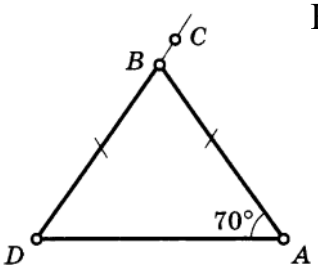

Найдите угол CBA